Централизованное тестирование по географии, 2014

При выполнении заданий с кратким ответом впишите в поле для ответа цифру, которая соответствует номеру правильного ответа, или число, слово, последовательность букв (слов) или цифр. Ответ следует записывать без пробелов и каких-либо дополнительных символов.

В заданиях, где нужно установить соответствие между двумя столбцами, ответ запишите в виде сочетания букв и цифр, соблюдая алфавитную последовательность букв левого столбца. Некоторые данные правого столбца могут использоваться несколько раз или не использоваться вообще. Например: А1Б1В4Г2.

Если вариант задан учителем, вы можете вписать или загрузить в систему ответы к заданиям с развернутым ответом. Учитель увидит результаты выполнения заданий с кратким ответом и сможет оценить загруженные ответы к заданиям с развернутым ответом. Выставленные учителем баллы отобразятся в вашей статистике.

1. Уроженец Беларуси, изучавший геологическое строение гор Анд в Чили:

1) А. Гумбольдт 2) Н. И. Вавилов 3) К. М. Ельский 4) И. И. Домейко

2. Географический объект, отмеченный на плане местности точкой, — это:

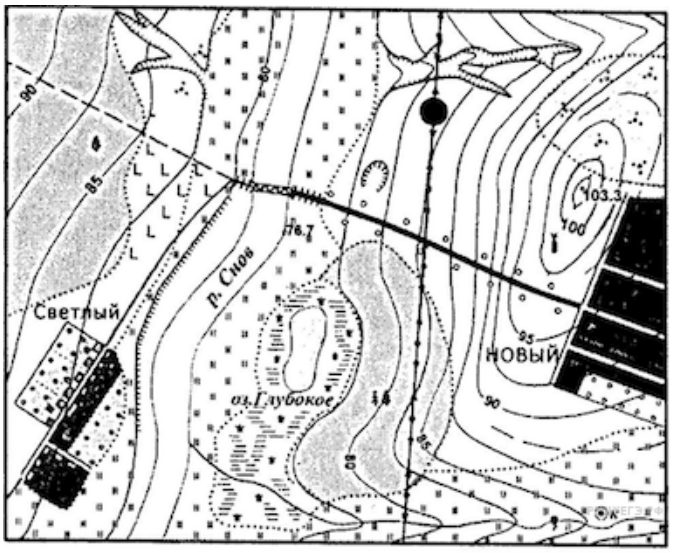

1) шоссе 2) железная дорога 3) линия электропередачи 4) пешеходная тропа

3. Горная страна — это:

1) участок рельефа с абсолютными высотами до 200 м 2) участок рельефа с абсолютными высотами от 200 до 500 м
3) обширный участок суши (или дна океана) с большими перепадами высот, поднятый высоко над равнинами
4) крупный участок суши и океанического дна с малыми колебаниями относительных высот (не более 200 м)

4. Определите ОШИБОЧНОЕ утверждение:

1) зимний муссон дует с суши на море
2) в умеренном климатическом поясе на протяжении года климат формируется под воздействием одного типа воздушных масс
3) в юго-западной части Австралии формируется субтропический континентальный тип климата
4) в Северной Америке в умеренном климатическом поясе наибольшее количество осадков выпадает на побережье Тихого океана

5. Западные берега Африки омывает холодное течение:

1) Южное Пассатное 2) Бенгельское 3) Куросио 4) Гольфстрим

6. Отметьте, какой природный комплекс (из предложенных) может дополнить схему субэкваториального климатического пояса Южной Америки:

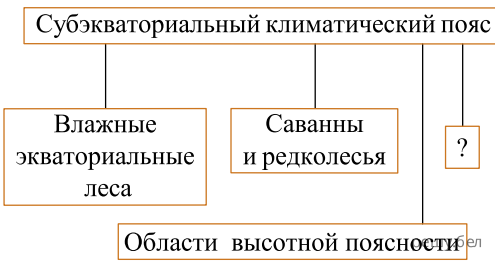

1) лесостепи и степи 2) полупустыни и пустыни 3) саванны и редколесья
4) жестколистные вечнозеленые леса и кустарники

7. Для размещения и расселения населения мира характерно(-а):

1) уменьшение числа больших городов 2) проживание основной части населения в Западном полушарии
3) наиболее высокая плотность населения в земледельческих районах Азии
4) преобладание численности городского населения Африки над численностью сельского

8. Федеративными по форме административно-территориального устройства являются:

1) США, Индия 2) Испания, Китай 3) Канада, Литва 4) Венесуэла, Италия

9.
Государство, которое по форме правления является монархией, отмечено на карте точкой с цифрой:

1) 1 2) 2 3) 3 4) 4

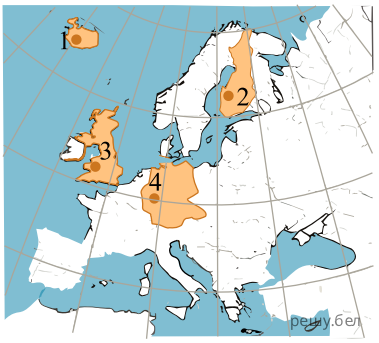

Карта составлена по состоянию на 01.01.2014

10. Для мировой промышленности характерна(-о):

1) транспортировка основной части газа в сжиженном виде специальными танкерами
2) наличие крупных разведанных запасов железных руд в России
3) высокая материалоемкость производства вычислительной техники
4) современная ориентация химии органического синтеза преимущественно на районы добычи угля

11. Среди перечисленных государств крупнейшими по размерам валового сбора кукурузы являются:

1) Мексика, ЮАР 2) Китай, Бразилия 3) Россия, Испания 4) Германия, Польша

12. Географию мирового транспорта характеризует:

1) высокая себестоимость перевозки грузов железнодорожным транспортом
2) наибольшая длина нефте- и газопроводов в странах Персидского залива
3) наибольшая протяженность внутренних водных путей в России, Китае и США
4) ежегодное прохождение через Панамский канал наибольшего количества судов

13. Для территории Африки характерно(-ы, -а):

1) отсутствие разломов в пределах платформы
2) незначительные суточные колебания температуры воздуха в тропическом поясе
3) принадлежность реки Нил к бассейну Индийского океана
4) широкое распространение коричневых почв в природной зоне субтропических вечнозеленых жестколистных лесов и кустарников

14. Укажите ОШИБОЧНОЕ утверждение в характеристике социально-экономического развития ЮАР:

1) количество городского населения превышает количество сельского 2) развита угольная промышленность
3) ведущая роль в структуре сельского хозяйства принадлежит растениеводству
4) значительную часть экспорта составляет продукция горнодобывающих отраслей

15. Укажите ОШИБОЧНОЕ утверждение в характеристике природы Австралии:

1) Большой Артезианский Бассейн располагается в прогибе древнего кристаллического фундамента
2) подземные воды широко используются в хозяйстве 3) в лесах представлен разнообразный видовой состав эвкалиптов
4) на материке много ядовитых змей

16. Для социально-экономического развития Австралийского Союза характерен(-но, -на):

1) низкий уровень урбанизации 2) преобладание протестантов и католиков среди верующих
3) концентрация предприятий машиностроения и химической промышленности на севере страны
4) наибольшая доля посевных площадей, занятых под технические культуры

17. Укажите ОШИБОЧНОЕ утверждение в характеристике Антарктиды:

1) берега континента преимущественно отвесны и слабо изрезаны
2) массив с максимальной высотой материка находится в Восточной Антарктиде
3) над материком формируется область высокого атмосферного давления 4) в прибрежных водах обитают тюлени

18. В пределах материка Южная Америка расположены:

1) река Парана, вулкан Котопахи 2) река Амазонка, вулкан Кракатау 3) Гвианское плоскогорье, река Миссури
4) водопад Игуасу, озеро Виннипег

19. Для социально-экономического развития стран Южной Америки характерна(-о):

1) унитарная форма административно-территориального устройства в Аргентине
2) добыча железных руд исключительно для собственных нужд
3) ведущая роль судостроения в структуре машиностроения крупных стран
4) выращивание сахарного тростника как одной из основных плантационных культур

20. Для социально-экономического развития Венесуэлы характерен(-но):

1) высокий естественный прирост населения 2) производство большей части электроэнергии на АЭС
3) наибольшее среди стран региона поголовье крупного рогатого скота
4) мировое лидерство в производстве и экспорте пшеницы

21. Для природы Северной Америки характерно(-а, -ен):

1) вхождение в состав древнего материка Лавразия 2) высокая сейсмичность восточной части материка
3) выпадение максимального годового количества осадков в умеренном климатическом поясе на побережье Атлантического океана
4) наибольший среди рек материка объем стока у реки Святого Лаврентия

22. ОШИБОЧНЫМ в характеристике социально-экономического развития США является утверждение:

1) высокий уровень урбанизации 2) часть электроэнергии производится на ГЭС
3) алюминиевая промышленность развивается преимущественно на импортном сырье
4) во внутренних грузоперевозках ведущая роль принадлежит автомобильному транспорту

23. Установите соответствие «тектоническая структура — форма рельефа», закончив логический ряд: Восточно-Европейская платформа — ... :

1) плато Гоби 2) Туранская низменность 3) Уральские горы 4) Приволжская возвышенность

24. На территории Европы расположены:

1) горы Судеты, река Лена 2) Прибугская равнина, горы Саяны 3) Мазурское поозерье, река Вилия
4) Освейское озеро, река Амударья

25. Для социально-экономического развития Польши характерно(-а):

1) наличие крупных агломераций 2) развитие теплоэнергетики преимущественно на базе собственных ресурсов газа
3) низкая доля свиноводства в производстве продукции животноводства
4) отсутствие глубоководных гаваней для крупнотоннажных судов

26. Физико-географический регион Азии, в пределах которого расположены такие географические объекты, как плато Декан, пустыня Тар, остров Шри-Ланка, обозначен на карте цифрой:

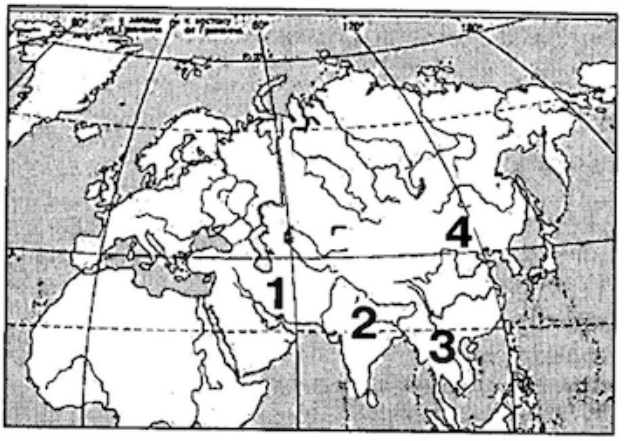

Карта составлена по состоянию на 01.01.2014

1) 1 2) 2 3) 3 4) 4

27. Для социально-экономического развития Китая, в ОТЛИЧИЕ от Индии, характерно:

1) значительное преобладание численности городского населения над численностью сельского
2) производство большей части электроэнергии на АЭС 3) производство минеральных удобрений
4) наибольшее в мире поголовье свиней

28. Территорию России омывают моря:

1) Северное и Берингово 2) Черное и Норвежское 3) Японское и Охотское 4) Желтое и Балтийское

29. В характеристике социально-экономического развития России ОШИБОЧНЫМ является утверждение:

1) наиболее многочисленной является индоевропейская языковая семья
2) Дальний Восток входит в зону очагового заселения
3) большую часть топливно-энергетического баланса составляет нефть и газ
4) в Бурятии отраслью специализации животноводства является свиноводство

30. Относительно географического положения Беларуси ВЕРНЫМ является утверждение:

1) по площади территории уступает Швейцарии
2) наименьшую по протяженности государственную границу имеет с Литвой
3) границу государства с Латвией пересекает река Западная Двина
4) крайний западный пункт страны расположен в Лидском районе

31. Изданием «Климатического атласа Беларуси» в 1927 г. руководил:

1) А. Х. Шкляр 2) А. И. Кайгородов 3) Я. Н. Афанасьев 4) И. Д. Юркевич

32. Месторождения железных руд в Беларуси:

1) Житковичское, Бриневское 2) Старобинское, Давыдовское 3) Околовское, Новоселковское
4) Осташковичское, Речицкое

33. Определите ОШИБОЧНОЕ утверждение в характеристике климата Беларуси:

1) фенологическая весна является самой короткой порой года
2) зимой южные районы получают намного больше солнечной радиации
3) летом на территорию страны проникает тропический воздух
4) наибольшая относительная влажность воздуха наблюдается весной и летом

34. Для гидрографии Предполесской физико-географической провинции характерна(-о):

1) редкая речная сеть в бассейне реки Березины 2) преимущественно дождевое питание рек 3) отсутствие озер-стариц
4) наличие крупных водохранилищ

35. К молодым городам на территории Беларуси относится:

1) Орша 2) Минск 3) Жодино 4) Логойск

36. Для промышленности Беларуси характерно(-а):

1) отсутствие гидроэлектростанций на реках Неман и Свислочь
2) наибольшая доля чугунного и стального литья в общем объеме производства черных металлов
3) высокая степень кооперирования современного автомобилестроения
4) отсутствие зависимости производства минеральных удобрений от импорта сырья

37. Для сельского хозяйства Беларуси характерно(-а):

1) развитие садоводства преимущественно в северных районах страны
2) выращивание овса в качестве главной зерновой продовольственной культуры
3) преимущественно мясная специализация скотоводства хозяйств южных районов страны
4) концентрация основного поголовья свиней в личных подсобных хозяйствах населения

38. Для транспорта Беларуси характерно(-а):

1) преобладание электрифицированных железных дорог 2) лидерство среди стран Европы по густоте железных дорог
3) густая сеть автомобильных дорог с твердым покрытием в Могилевской области
4) наибольшая роль рек Немана и Западной Двины в перевозке грузов речным транспортом

39. Запишите название острова, выделенного на карте цветом и обозначенного буквой.

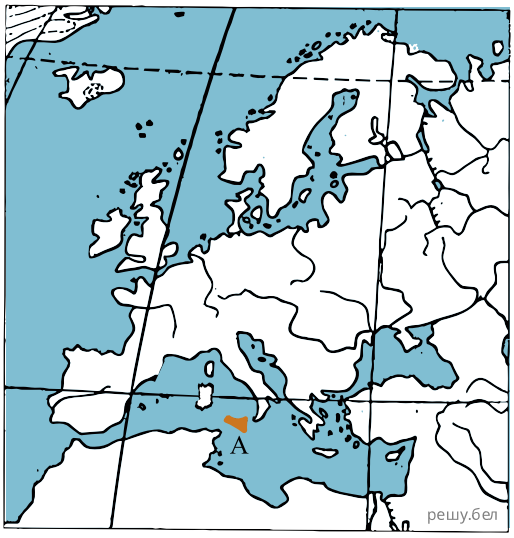

Карта составлена по состоянию на 01.01.2014

40. Расположите последовательно с севера на юг следующие географические объекты:

1) Бенгальский залив
2) озеро Титикака
3) Чукотский полуостров
4) остров Ньюфаундленд

Ответ запишите в виде последовательности цифр. Например: 2143.

41. Установите соответствие.

МЕЖДУНАРОДНАЯ ОРГАНИЗАЦИЯ	ГОСУДАРСТВО
А) СНГ	1) Азербайджан
Б) ЕС	2) Китай
В) ОПЕК	3) Норвегия
Г) НАТО	4) Эстония
	5) Алжир

Ответ запишите в виде сочетания букв и цифр, соблюдая алфавитную последовательность букв левого столбца. Не все данные правого столбца могут быть при этом использованы. Например: А2Б1В4Г5.

42. В июле в субтропическом климатическом поясе Южного полушария господствуют ... воздушные массы.

43. Федеративное государство, крупнейшее по площади территории на материке, обладает крупными запасами железных руд и бокситов, в пределах которого расположена одна из крупнейших в мире ГЭС. Столица государства — ...

44. Установите соответствие.

ЭКОНОМИЧЕСКИЙ И ПОЛИТИЧЕСКИЙ ЦЕНТР	РЕГИОН
	1) Южная Европа
А) Сан-Паулу	2) Северная Европа
Б) Лиссабон	3) Северная Америка
В) Рейкьявик	4) Южная Америка
Г) Чикаго	5) Западная Европа

Ответ запишите в виде сочетания букв и цифр, соблюдая алфавитную последовательность букв левого столбца. Не все данные правого столбца могут быть при этом использованы. Например: А2Б1В4Г5.

45. Установите соответствие.

ХАРАКТЕРИСТИКА ГОСУДАРСТВА

А) унитарное государство, лидирующее в мире по валовым сборам пшеницы
Б) федеративная республика, мировой лидер по производству кукурузы
В) государство, расположенное в двух частях света, обладающее разведанными запасами железных руд мирового значения
Г) государство, входящее в число мировых лидеров по добыче бокситов

ГОСУДАРСТВО

1) США
2) Австралийский Союз
3) Россия
4) Китай
5) Индия

Ответ запишите в виде сочетания букв и цифр, соблюдая алфавитную последовательность букв левого столбца. Не все данные правого столбца могут быть при этом использованы. Например: А2Б1В4Г5.

46. Отложения самой большой мощности на территории Беларуси были сформированы в результате ... оледенения.

47. Установите соответствие между географическим объектом, отмеченным на карте Беларуси точкой с буквой, и его названием:

Карта составлена по состоянию на 01.01.2014

1) озеро Долгое
2) река Вилия
3) Солигорское водохранилище
4) река Припять
5) река Свислочь

Ответ запишите в виде сочетания букв и цифр, соблюдая алфавитную последовательность букв левого столбца. Не все данные правого столбца могут быть при этом использованы. Например: А2Б1В4Г5.

48.

На картосхеме обозначены промышленные центры Беларуси — Лида, Жлобин, Новополоцк, Орша. Искусственный мех производят в городе, отмеченном точкой с цифрой ...

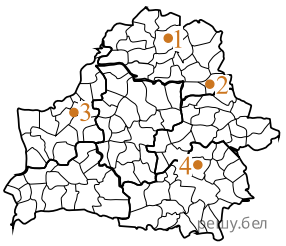

Карта составлена по состоянию на 01.01.2014

49. Определите расстояние (в километрах) между пунктами с координатами 21° ю. ш., 60° в. д. и 2° ю. ш., 60° в. д.

Ответ запишите в виде целого числа. Например 218.

50. 812. На территории государства площадью 20,2 тыс. км^2 проживают 2,1 млн человек. Определите среднюю плотность населения страны.

Ответ запишите в виде целого числа. Например 21.